Kodomo Soroban Center · Phiếu số 63 · Toán lớp 1

Tách – gộp số trong phạm vi 20

Lớp 1

Họ tên: _____ Ngày: _____ Thời gian: _____ Điểm: /23

Làm từng phần, mỗi ngày khoảng 10 phút. Lúc đầu cho con dùng que tính hoặc hạt đậu để kiểm tra. Đáp án ở trang 2.

10 và mấy
Số từ 11 đến 19 gồm 10 và một số có một chữ số: 14 gồm 10 và 4. 10 và 6 gộp lại được 16.

Viết thành phép tính
14 gồm 10 và 4, nên 10 + 4 = 14, 14 – 4 = 10 và 14 – 10 = 4.

1 Điền số còn thiếu vào ô tròn nét đứt

1 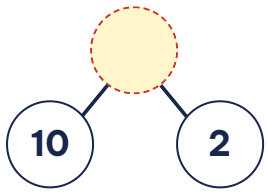

2 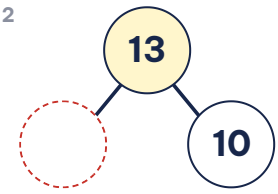

3 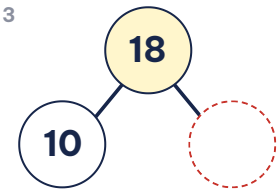

4 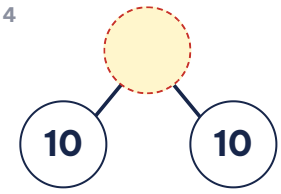

5 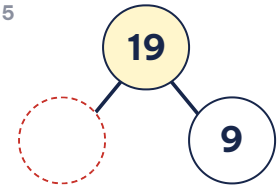

6 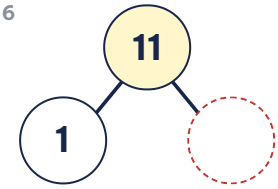

7 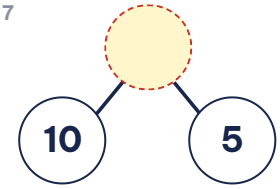

8 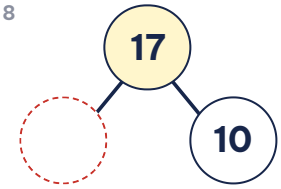

2 Viết số còn thiếu

1 19 gồm 10 và ☐
2 15 gồm ☐ và 5
3 ☐ gồm 10 và 2
4 18 gồm 8 và ☐
5 17 gồm 10 và ☐
6 13 gồm ☐ và 3
7 ☐ gồm 10 và 1

3 Tính

1 10 + 2 = ☐
2 17 – 10 = ☐
3 18 – 8 = ☐
4 10 + 5 = ☐
5 13 – 10 = ☐
6 11 – 1 = ☐

4 Giải bài toán

Bài 1. Rổ thứ nhất có 10 quả cam, rổ thứ hai có 8 quả cam. Hỏi cả hai rổ có bao nhiêu quả cam?

Bài 2. Hộp có 15 cái bút, trong đó có 10 cái bút đỏ, còn lại là bút xanh. Hỏi hộp có mấy cái bút xanh?

Tách – gộp số trong phạm vi 20

Đáp án

Đáp án – phụ huynh giữ, chấm cùng con sau khi con làm xong.

1 Điền số còn thiếu vào ô tròn nét đứt

1. 12 → 10, 2
2. 13 → 3, 10
3. 18 → 10, 8
4. 20 → 10, 10
5. 19 → 10, 9
6. 11 → 1, 10
7. 15 → 10, 5
8. 17 → 7, 10

2 Viết số còn thiếu

1. 19 gồm 10 và **9**
2. 15 gồm **10** và 5
3. **12** gồm 10 và 2
4. 18 gồm 8 và **10**
5. 17 gồm 10 và **7**
6. 13 gồm **10** và 3
7. **11** gồm 10 và 1

3 Tính

1. 10 + 2 = **12**
2. 17 – 10 = **7**
3. 18 – 8 = **10**
4. 10 + 5 = **15**
5. 13 – 10 = **3**
6. 11 – 1 = **10**

4 Giải bài toán

Bài 1. Rổ thứ nhất có 10 quả cam, rổ thứ hai có 8 quả cam. Hỏi cả hai rổ có bao nhiêu quả cam?

10 + 8 = 18 (quả cam) · Đáp số: 18 quả cam

Bài 2. Hộp có 15 cái bút, trong đó có 10 cái bút đỏ, còn lại là bút xanh. Hỏi hộp có mấy cái bút xanh?

15 – 10 = 5 (cái bút xanh) · Đáp số: 5 cái bút xanh