Tách – gộp số trong phạm vi 100

Lớp 1

Họ tên: Ngày: Thời gian: Điểm: /31

Cho con dùng que tính thật: bó 10 que thành 1 chục. Số bó là số chục, số que lẻ là số đơn vị. Đáp án ở trang 2.

Chục và đơn vị
47 gồm 4 chục và 7 đơn vị. Viết thành tổng: 47 = 40 + 7. Chữ số bên trái là số chục, bên phải là số đơn vị.

Gộp số tròn chục
3 chục và 5 chục gộp lại được 8 chục: 30 và 50 gộp lại được 80. 100 gồm 10 chục.

1 Đếm que tính rồi viết số (mỗi bó có 1 chục que)

1 

☐ chục ☐ đơn vị → số ☐

2 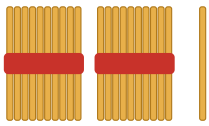

☐ chục ☐ đơn vị → số ☐

3 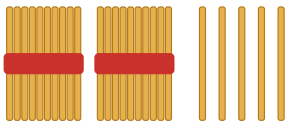

☐ chục ☐ đơn vị → số ☐

4 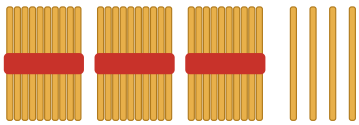

☐ chục ☐ đơn vị → số ☐

2 Điền số còn thiếu vào ô tròn nét đứt

1 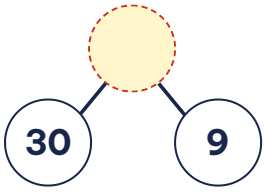

2 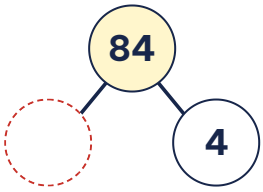

3 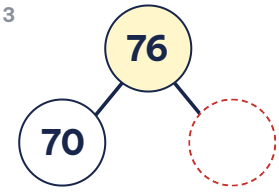

4 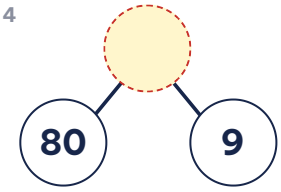

3 Viết số còn thiếu

1 65 gồm ☐ chục và ☐ đơn vị

2 ☐ gồm 7 chục và 4 đơn vị

3 43 = 40 + ☐

4 ☐ = 70 + 1

5 69 = ☐ + 9

6 70 và 2 gộp lại được ☐

7 59 gồm ☐ chục và ☐ đơn vị

8 ☐ gồm 4 chục và 1 đơn vị

9 64 = 60 + ☐

10 ☐ = 30 + 5

4 Tách, gộp số tròn chục

1 40 và 40 gộp lại được ☐

2 70 gồm 30 và ☐

3 80 gồm ☐ và 20

Tách – gộp số trong phạm vi 100

Đáp án

Đáp án – phụ huynh giữ, chấm cùng con sau khi con làm xong.

1 Đếm que tính rồi viết số (mỗi bó có 1 chục que)

1 

5 chục 1 đơn vị → số 51

2 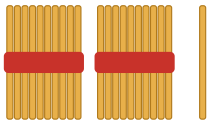

2 chục 1 đơn vị → số 21

3 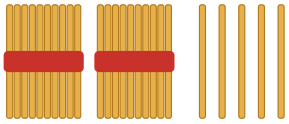

2 chục 5 đơn vị → số 25

4 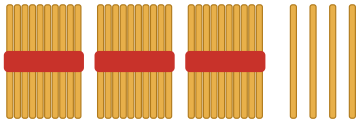

3 chục 4 đơn vị → số 34

2 Điền số còn thiếu vào ô tròn nét đứt

1 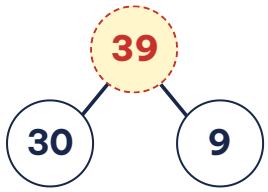

2 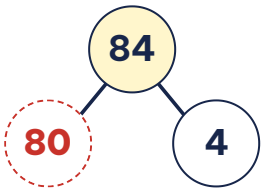

3 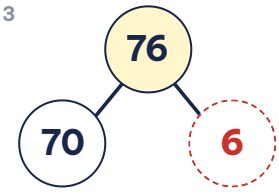

4 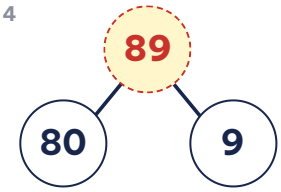

3 Viết số còn thiếu

1. 65 gồm 6 chục và 5 đơn vị
2. 74 gồm 7 chục và 4 đơn vị
3. 43 = 40 + 3
4. 71 = 70 + 1
5. 69 = 60 + 9
6. 70 và 2 gộp lại được 72
7. 59 gồm 5 chục và 9 đơn vị
8. 41 gồm 4 chục và 1 đơn vị
9. 64 = 60 + 4
10. 35 = 30 + 5

4 Tách, gộp số tròn chục

1. 40 và 40 gộp lại được 80
2. 70 gồm 30 và 40
3. 80 gồm 60 và 20