Các dạng bài tách – gộp số trong phạm vi 10

Lớp 1

Họ tên: Ngày: Thời gian: Điểm: /29

5 dạng bài tách – gộp hay gặp ở lớp 1. Mỗi ngày làm 1–2 dạng. Đáp án ở trang 2.

1 Nhìn tranh, viết số

1



□ và □ gộp lại được □

2



□ và □ gộp lại được □

3



□ và □ gộp lại được □

4



□ và □ gộp lại được □

2 Điền số còn thiếu vào ô tròn nét đứt

1

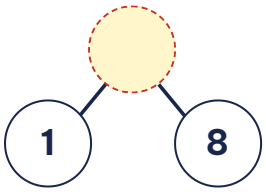

2

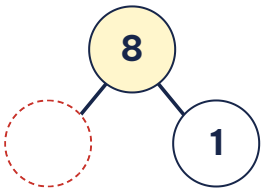

3

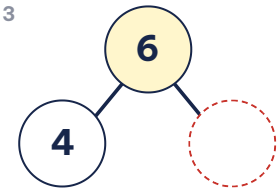

4

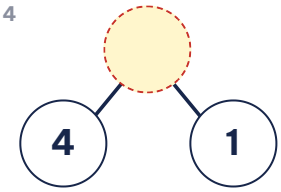

3 Từ sơ đồ, viết 2 phép cộng và 2 phép trừ

1

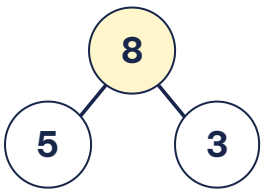

□ + □ = □

□ + □ = □

□ − □ = □

□ − □ = □

2

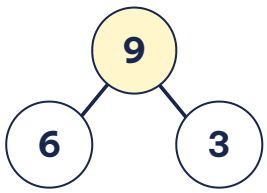

□ + □ = □

□ + □ = □

□ − □ = □

□ − □ = □

4 Khoanh vào hai số gộp lại được số đã cho

1 Gộp lại được **7** : 3 6 5 1 7

2 Gộp lại được **8** : 5 6 8 4 3

3 Gộp lại được **9** : 7 9 3 6 8

4 Gộp lại được **10** : 1 9 5 6 3

5 Giải bài toán

Bài 1. Có 9 quả bóng, trong đó có 4 quả bóng đỏ, còn lại là bóng xanh. Hỏi có mấy quả bóng xanh?

Các dạng bài tách – gộp số trong phạm vi 10

Đáp án

Đáp án – phụ huynh giữ, chấm cùng con sau khi con làm xong.

1 Nhìn tranh, viết số

1



3 và 4 gộp lại được 7

2



5 và 2 gộp lại được 7

3



2 và 6 gộp lại được 8

4



4 và 5 gộp lại được 9

2 Điền số còn thiếu vào ô tròn nét đứt

1

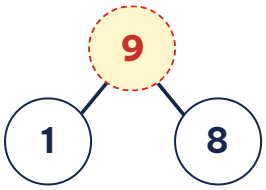

2

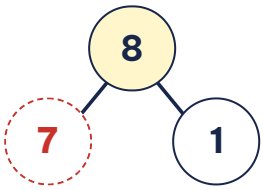

3

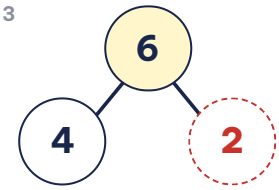

4

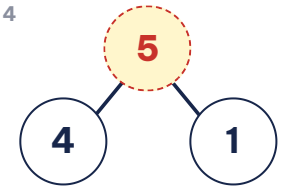

3 Từ sơ đồ, viết 2 phép cộng và 2 phép trừ

1

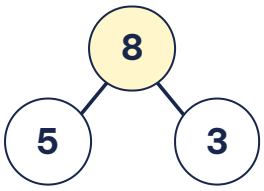

5 + 3 = 8
3 + 5 = 8
8 − 5 = 3
8 − 3 = 5

2

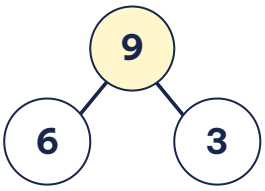

6 + 3 = 9
3 + 6 = 9
9 − 6 = 3
9 − 3 = 6

4 Khoanh vào hai số gộp lại được số đã cho

1 Gộp lại được 7 : 3 **(6)** 5 **(1)** 7

2 Gộp lại được 8 : **(5)** 6 8 4 **(3)**

3 Gộp lại được 9 : 7 9 **(3)** **(6)** 8

4 Gộp lại được 10 : **(1)** **(9)** 5 6 3

5 Giải bài toán

Bài 1. Có 9 quả bóng, trong đó có 4 quả bóng đỏ, còn lại là bóng xanh. Hỏi có mấy quả bóng xanh?

9 − 4 = 5 (quả bóng xanh) · Đáp số: 5 quả bóng xanh